Централизованное тестирование по географии, 2015

При выполнении заданий с кратким ответом впишите в поле для ответа цифру, которая соответствует номеру правильного ответа, или число, слово, последовательность букв (слов) или цифр. Ответ следует записывать без пробелов и каких-либо дополнительных символов.

В заданиях, где нужно установить соответствие между двумя столбцами, ответ запишите в виде сочетания букв и цифр, соблюдая алфавитную последовательность букв левого столбца. Некоторые данные правого столбца могут использоваться несколько раз или не использоваться вообще. Например: А1Б1В4Г2.

Если вариант задан учителем, вы можете вписать или загрузить в систему ответы к заданиям с развернутым ответом. Учитель увидит результаты выполнения заданий с кратким ответом и сможет оценить загруженные ответы к заданиям с развернутым ответом. Выставленные учителем баллы отобразятся в вашей статистике.

1.
Географические координаты точки В на карте:

1) 40° ю. ш., 140° з. д.
2) 40° с. ш., 140° в. д.
3) 40° ю. ш., 140° в. д.
4) 140° ю. ш., 40° в. д.

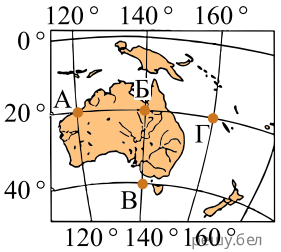

Карта составлена по состоянию на 01.01.2015

2. Указанному линейному масштабу соответствует численный масштаб:

1) 1 : 600 2) 1 : 6000 3) 1 : 60 000 4) 1 : 600 000

3. На рисунке изображены (изображен):



1) глыбовые горы 2) складчатые горы 3) щит платформы
4) вулканические горы

4. Определите ВЕРНОЕ утверждение:

1) абсолютная влажность воздуха зависит от его температуры
2) пассаты в Северном полушарии дуют с юго-востока на северо-запад
3) в центре антициклона формируются мощные облака и выпадают осадки
4) границей между умеренным и жарким тепловым поясом является средняя годовая изотерма +10 °С

5. Из предложенных пар, включающих реку и залив (море), в который (которое) она впадает, укажите составленную ОШИБОЧНО:

1) река Тигр — Персидский залив 2) река Амур — Берингово море
3) река Нил — Средиземное море 4) река Нигер — Гвинейский залив

6. Укажите эндемичное животное Африки:

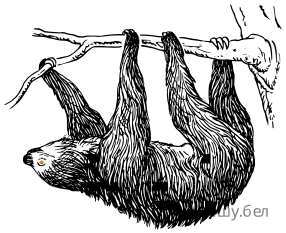

1)

2)



3)

4)

1) 1 2) 2 3) 3 4) 4

7.

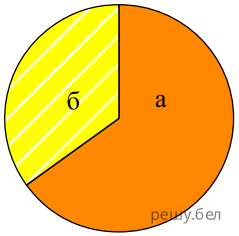

а) доля городского населения
б) доля сельского населения

На диаграмме отражена структура населения:

1) Индии 2) Канады 3) Германии 4) Армении

8. Республиками по форме государственного правления являются:

1) Италия, Япония 2) Испания, Китай 3) Россия, Азербайджан
4) Австралийский Союз, Дания

9. В состав Организации стран — экспортеров нефти (ОПЕК) входят государства:

1) США, Ирак 2) Китай, Кувейт 3) ЮАР, Венесуэла
4) Саудовская Аравия, Нигерия

10.

На карте цветом выделены три государства, которые в международном разделении труда являются ведущими по:

1) добыче нефти 2) поголовью овей и коз
3) тоннажу морского флота
4) производству минеральных удобрений

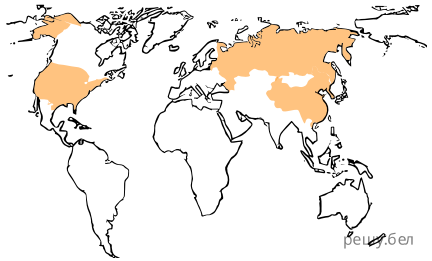

Карта составлена по состоянию на 01.01.2015

11. Укажите ВЕРНОЕ утверждение, характеризующее современную мировую промышленность:

1) крупнейшая в мире ГЭС построена на реке Миссури
2) основным сырьем для получения черных металлов является железная руда
3) в тройку ведущих стран по тоннажу спускаемых на воду морских судов входят страны Западной Европы
4) в северном лесном поясе преобладают лиственные породы

12. Для мирового сельского хозяйства характерна (-о):

1) занятость большей части трудоспособного населения Германии в сельском хозяйстве
2) наименьшая доля кукурузы в структуре валового сбора зерновых культур
3) культивирование арахиса в странах Южной Азии
4) мировое лидерство Канады по поголовью свиней

13. Географию мирового транспорта характенаибольшая густота железных дорог в странах Западной Европыризует:

1) наибольшая густота железных дорог в странах Западной Европы
2) наименьшая доля автомобильного транспорта в мировых грузоперевозках
3) наибольшая протяженность внутренних водных путей в Канаде
4) наибольшая протяженность воздушных путей в транспортной сети мира

14. Для территории Африки характерно:

1) расположение в четырех полушариях 2) омывание водами Бенгальского залива
3) отсутствие древних гор 4) равномерное распределение речной сети

15. В характеристике социально-экономического развития Африки ОШИБОЧНЫМ является утверждение:

1) народы банту проживают преимущественно в Экваториальной и Южной Африке
2) по форме государственного устройства Египет — федеративное государство
3) континент обеспечивает значительную часть мировой добычи фосфоритов
4) ведущим направлением сельского хозяйства большинства стран является растениеводство

16. В Австралии:

1) платформа занимает западную и центральную часть материка
2) северная окраина континента расположена в экваториальном климатическом поясе
3) имеются незначительные запасы подземных вод
4) смешанные леса умеренного пояса распространены на южном побережье материка

17. В характеристике социально-экономического развития Австралийского Союза ОШИБОЧНЫМ является утверждение:

1) уровень урбанизации — один из наиболее высоких в мире
2) в структуре ВВП сельское хозяйство уступает промышленности
3) новые металлургические комбинаты расположены на юге и юго-западе страны
4) пашня занимает более половины территории в зоне саванн и редколесий

18.

На карте в пределах акватории Индийского океана расположена точка с цифрой:

1) 1 2) 2 3) 3 4) 4

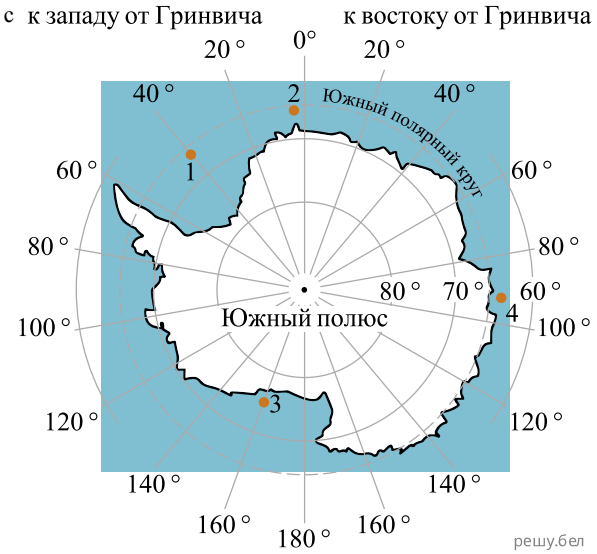

Карта составлена по состоянию на 01.01.2015

19. В пределах материка Южная Америка расположены:

1) гора Мак-Кинли, озеро Титикака 2) гора Аконкагуа, река Ориноко
3) река Оранжевая, Амазонская низменность 4) водопад Игуасу, вулкан Кракатау

20. Для социально-экономического развития Южной Америки характерен(-но -на):

1) высокий уровень грамотности населения
2) производство основной части электроэнергии в Бразилии на ТЭС
3) ведущая роль животноводства в структуре сельского хозяйства континента
4) исчезновение в результате хозяйственной деятельности около 90 % тропических лесов

21. В Северной Америке:

1) наиболее изрезано большим количеством заливов и морей побережье Тихого океана
2) на востоке платформа окаймлена древним складчатым поясом
3) самые засушливые районы материка расположены в тропическом поясе
4) для тайги характерны красно-коричневые почвы

22. Для Мексики характерна(-ы -о):

1) унитарная форма административно-территориального устройства
2) низкие темпы естественного прироста населения
3) производство большей части электроэнергии на ГЭС
4) ведущая роль растениеводства в структуре сельского хозяйства

23. ВЕРНЫМ в характеристике природы Евразии является утверждение:

1) Среднерусская возвышенность расположена в пределах Сибирской платформы
2) самое сухое место на континенте — Аравийский полуостров
3) река Меконг относится к бассейну Индийского океана
4) большая часть Скандинавского полуострова расположена в природной зоне смешанных и широколиственных лесов

24. В пределах территории Европы расположены:

1) озеро Нарочь, Иранское нагорье 2) горы Гарц, Валдайская возвышенность
3) Казахский мелкосопочник, горы Судеты
4) горы Карпаты, Западно-Сибирская равнина

25. Для социально-экономического развития стран Европы характерно(-ен, -ы):

1) преобладание католиков в восточноевропейских странах
2) рост численности населения Германии за счет высокого естественного прироста
3) значительные объемы выплавки рафинированной меди в Польше
4) производство основной части товарной сельскохозяйственной продукции стран Северной Европы в растениеводстве

26. Для социально-экономического развития Франции в отличие от Великобритании характерна:

1) занятость большей части населения в сфере услуг
2) республиканская форма государственного правления
3) ведущая роль металлургии в обрабатывающей промышленности
4) ведущая роль сельского хозяйства в структуре ВВП

27. В характеристике государств Закавказья ВЕРНЫМ является утверждение:

1) самый высокий уровень урбанизации в Грузии
2) легкая промышленность стран региона базируется преимущественно на привозном сырье
3) сельское хозяйство региона имеет растениеводческую специализацию
4) в Армении главным направлением сельского хозяйства является производство чая и табака

28. В пределах территории России расположена (-ен, -о):

1) пустыня Кызылкум 2) полуостров Аляска 3) озеро Лобнор
4) Братское водохранилище

29. В характеристике социально-экономического развития России ОШИБОЧНЫМ является утверждение:

1) продолжительность жизни у женщин больше, чем у мужчин
2) вокруг городов-миллионеров образовались крупные агломерации
3) производство азотных удобрений зависит от импорта сырья
4) страна входит в тройку мировых лидеров по протяженности трубопроводов

30. Относительно географического положения Беларуси ВЕРНЫМ является утверждение:

1) с севера на юг территория государства простирается на 600 км
2) географический центр страны находится в Борисовском районе
3) наименее протяженным является участок государственной границы с Литвой
4) центральность является одним из преимуществ экономико-географического положения

31.
Отмеченная на картосхеме цифрой 1 тектоническая структура — это:

1) Брагинско-Лоевская седловина
2) Брестская впадина
3) Полесская седловина
4) Белорусская антеклиза

Карта составлена по состоянию на 01.01.2015

32. Для климата Беларуси характерно (-ен):

1) увеличение годовой суммарной солнечной радиации в направлении с севера на юг
2) отсутствие воздействия атлантических воздушных масс
3) близкий к меридиональному ход изотерм июля
4) выпадение максимального годового количества осадков на Оршанско-Могилевской равнине

33. К бассейну Балтийского моря относится река:

1) Ясельда 2) Припять 3) Птичь 4) Западный Буг

34. В составе флоры Беларуси представителем интродуцированных растений является:

1) ольха 2) морошка 3) тимофеевка 4) ель голубая

35. В характеристике населения Беларуси ВЕРНЫМ является утверждение:

1) в возрастной структуре наибольшую долю составляет население трудоспособного возраста
2) в стране отсутствуют районы с неблагоприятной демографической ситуацией в сельской местности
3) первые города на территории страны возникли в X в.
4) в стране не представлены протестантские христианские конфессии

36. Для промышленности Беларуси характерно(-а):

1) производство большей части электроэнергии на ГЭС
2) специализация автомобилестроения на производстве легковых автомобилей
3) размещение предприятий по производству цемента во всех крупных городах страны
4) наличие нескольких центров по производству сахара

37. Для сельского хозяйства Беларуси характерна(-о):

1) наибольшая доля луговых угодий в структуре сельскохозяйственных угодий страны
2) наименьшая доля площадей, занятых под озимую тритикале, среди зерновых культур
3) наибольшая плотность крупного рогатого скота на 100 га сельскохозяйственных угодий в Гомельской области
4) наличие крупных птицефабрик промышленного типа во всех областях страны

38. Для транспорта Беларуси характерна(-ен, -о):

1) ведущая роль железнодорожного транспорта в грузообороте
2) более густая сеть дорог с твердым покрытием в Брестской области
3) самый большой грузооборот у Речицкого речного порта
4) прохождение одного из направлений нефтепровода «Дружба» через Могилев

39.

Назовите залив Мирового океана, в пределах акватории которого на карте расположена точка.

В ответ запишите название залива. Например: Лионский.

Карта составлена по состоянию на 01.01.2015

40. Расположите последовательно с севера на юг следующие географические объекты:

1) озеро Эйр-Норт
2) горы Кавказ
3) полуостров Малакка
4) пустыня Руб-эль-Хали

Ответ запишите цифрами, соблюдая полученную последовательность. Например: 2143.

41. Установите соответствие:

ОКЕАН

А) Тихий
Б) Атлантический
В) Индийский
Г) Северный Ледовитый

ХАРАКТЕРИСТИКА ОКЕАНА

1) к бассейну океана относится река Замбези
2) самый богатый по видовому разнообразию органический мир
3) занимает первое место среди океанов по степени хозяйственного использования
4) омывает побережье только двух материков

Ответ запишите в виде сочетания букв и цифр, соблюдая алфавитную последовательность букв левого столбца. Например: А4Б3В2Г1.

42. По способу образования песок и глина — осадочные горные породы ... происхождения.

Дополните предложение и запишите ответ словом.

43. Однородное по этническому составу унитарное государство, основная часть населения которого сконцентрирована в дельте крупной реки. В промышленности большую роль играет добыча нефти и природного газа. Столица данного государства — ...

Запишите столицу государства. Например: Минск.

44. Установите соответствие.

ОСТРОВ	ГОСУДАРСТВО
А) Гренландия	1) Индонезия
Б) Сулавеси	2) Франция
В) Хонсю	3) Япония
Г) Корсика	4) Дания
	5) Италия

Ответ запишите в виде сочетания букв и цифр, соблюдая алфавитную последовательность букв левого столбца. Помните, что не все данные правого столбца могут быть при этом использованы. Например: А2Б1В4Г5.

45. Установите соответствие.

ХАРАКТЕРИСТИКА ГОСУДАРСТВА

А) федеративное государство, занимающее одно из первых мест в мире по настригу шерсти
Б) крупнейшее на материке по численности населения постиндустриальное государство
В) федеративное государство, одно из лидеров по площади лесов
Г) унитарное государство, лидирующее в регионе по объемам выплавки серебра

ГОСУДАРСТВО

1) США
2) Россия
3) Украина
4) Польша
5) Австралийский Союз

Ответ запишите в виде сочетания букв и цифр, соблюдая алфавитную последовательность букв левого столбца. Помните, что не все данные правого столбца могут быть при этом использованы. Например: А2Б1В4Г5.

46.

Назовите возвышенность, выделенную на карте цветом.

В ответ запишите название возвышенности. Например: Валдайская.

Карта составлена по состоянию на 01.01.2015

47. Установите соответствие.

ФИЗИКО-ГЕОГРАФИЧЕСКАЯ ПРОВИНЦИЯ	ГЕОГРАФИЧЕСКИЙ ОБЪЕКТ
А) Белорусская Поозерская	1) Краснослободское водохранилище
Б) Полесская	2) Мозырская гряда
В) Восточно-Белорусская	3) месторождение мела и мергеля Каменка
Г) Предполесская	4) Освейский ландшафтный заказник

Ответ запишите в виде сочетания букв и цифр, соблюдая алфавитную последовательность букв левого столбца. Например: А2Б1В4Г3.

48. Установите соответствие между названием продукции и центром ее производства (Гродно, Могилев, Минск, Пинск), отмеченным на карте цифрой.

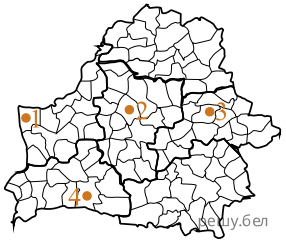

А) телевизоры
Б) спички
В) стекло
Г) чугунные и стальные трубы.

Карта составлена по состоянию на 01.01.2015

Ответ запишите в виде сочетания букв и цифр, соблюдая алфавитную последовательность букв. Например: А2Б1В4Г3.

49. На плане местности определите относительную высоту точки, расположенной в пределах линии электропередачи, по отношению к отметке уреза воды в реке Яршевка.

Ответ запишите цифрами в виде целого числа, единицы измерения не указывайте. Например: 10.

50. Турист прошел от палаточного лагеря до родника 150 м по азимуту 0°. Далее такое же расстояние он прошел от родника до дома лесника по азимуту 270°. Определите азимут направления движения туриста от дома лесника до палаточного лагеря.

Ответ запишите цифрами в виде целого числа, единицы измерения не указывайте. Например: 30.